1

1 Números hasta el 30.....Página 4

La recta numérica. Comparación de números. El calendario.

2 Suma de unidades.....Página 18

Vamos de compras (1)

3 Resta de unidades.....Página 28

Vamos de compras (2)

Para acabar: Las líneas y el punto.....Página 38

1 Los números hasta el 30

- **Conozco los números**

1	2	3	4	5	6	7	8	9	10
11	12	13	14	15	16	17	18	19	20
21	22	23	24	25	26	27	28	29	30

- **El nombre de los números**

1	uno	11	once	21	veintiuno
2	dos	12	doce	22	veintidós
3	tres	13	trece	23	veintitrés
4	cuatro	14	catorce	24	veinticuatro
5	cinco	15	quince	25	veinticinco
6	seis	16	dieciséis	26	veintiséis
7	siete	17	diecisiete	27	veintisiete
8	ocho	18	dieciocho	28	veintiocho
9	nueve	19	diecinueve	29	veintinueve
10	diez	20	veinte	30	treinta

MUESTRA GRATUITA

Actividades

1. Completa los números hasta el 30.

1				5					10
11				15					20
21				25					30

2. Escribe el nombre de estos números

11	----------	21	----------
12	----------	22	----------
13	----------	23	----------
14	----------	24	----------
15	----------	25	----------
16	----------	26	----------
17	----------	27	----------
18	----------	28	----------
19	----------	29	----------
20	----------	30	----------

MUESTRA GRATUITA

Actividades

3. Escribe el número correspondiente:

- once
- doce
- trece
- catorce
- quince
- dieciséis
- diecisiete
- dieciocho
- diecinueve
- veinte
- veintiuno
- veintidós
- veintitrés
- veinticuatro
- veinticinco
- veintiséis
- veintisiete
- veintiocho
- veintinueve
- treinta

4. Completa los números hasta el 30.

1									10
11									20
21									30

MUESTRA GRATUITA

Actividades

5. Completa los números hasta el 30.

1									
									30

6. Escribe el número correspondiente:

- doce ☐
- catorce ☐
- dieciséis ☐
- dieciocho ☐
- veinte ☐
- once ☐
- trece ☐
- quince ☐
- diecisiete ☐
- diecinueve ☐
- veintiuno ☐
- veintitrés ☐
- veinticinco ☐
- veintisiete ☐
- veintinueve ☐
- veintiocho ☐
- veintiséis ☐
- veinticuatro ☐
- veintidós ☐
- treinta ☐

MUESTRA GRATUITA

La recta numérica

Representamos los números en una recta.
La llamamos **recta numérica** o **línea numérica**.

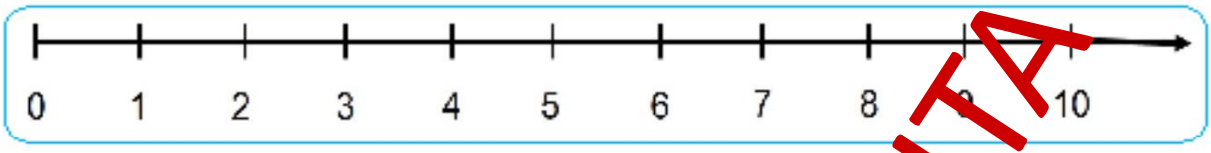

RECTA NUMÉRICA

El valor de los números

1 < 2 < 3 < 4 < 5 < 6 < 7 < 8 < 9 < 10

1 < 2 significa que el dos vale más que el uno, que el dos es mayor y el uno es menor.

El dos vale más que el uno, el tres vale más que el dos, el cuatro vale más que el tres y así sucesivamente.

Si te fijas en la recta numérica, cuanto más a la derecha está un número, más valor tiene.

Los días de la semana

Los días de la semana son 7:

1º lunes 2º martes 3º miércoles 4º jueves 5º viernes

6º sábado 7º domingo

MUESTRA GRATUITA

Actividades

7. Escribe los números del 1 al 30 en la recta numérica:

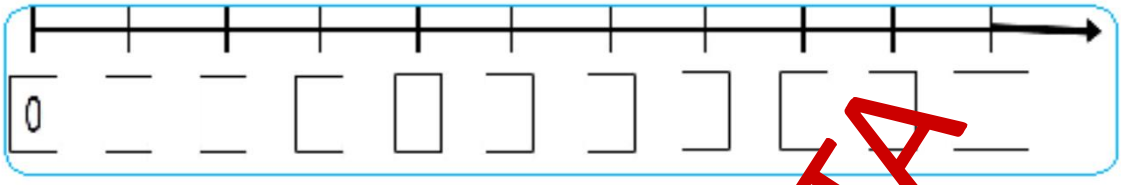

8.Escribe > mayor que o < menor que.

10	◯	1	7	◯	3	3	◯	8
2	◯	9	4	◯	5	6	◯	2

9. Escribe en orden los días de la semana.

1º _____

2º _____

3º _____

4º _____

5º _____

6º _____

7º _____

MUESTRA GRATUITA

El calendario

Con el calendario dividimos el tiempo (un año) en días, semanas y meses. Cada página del calendario representa un mes del año. Los meses tienen 30 o 31 días menos febrero que tiene 28 días.

enero 2014

Lunes	Martes	Miércoles	Jueves	Viernes	Sábado	Domingo
		1	2	3	4	5
6	7	8	9	10	11	12
13	14	15	16	17	18	19
20	21	22	23	24	25	26
27	28	29	30	31		

HOJA DEL CALENDARIO

MUESTRA GRATUITA

Actividades

■ 10. ¿En qué año estamos?

➔ ----------

■ 11. ¿En qué mes estamos?

➔ ----------

■ 12. ¿Qué día es hoy?

➔ ----------

■ 13. Fíjate en esta página del calendario y contesta.

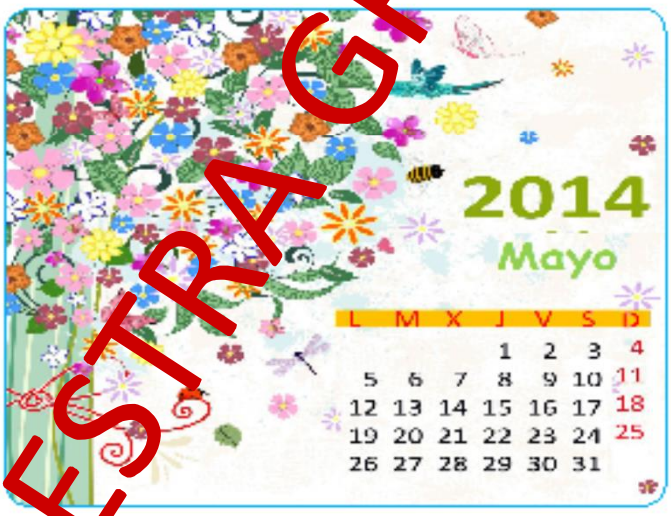

- ¿De qué mes es esa página del calendario?

➔ ----------

- ¿Qué día de la semana era el día 25?

➔ ----------

- ¿Qué días (números) son domingo?

➔ ----------

MUESTRA GRATUITA

Comparación de números

11 < 12 < 13 < 14 < 15 < 16 < 17 < 18 < 19 < 20

El once es menor que el doce, el doce es menor que el trece...

< significa **menor que.**

30 > 29 > 28 > 27 > 26 > 25 > 24 > 23 > 22 > 21

El treinta es mayor que el veintinueve, el veintinueve es mayor que el veintiocho...

> significa **mayor que.**

Cuando comparamos números que tienen dos cifras:

1) Primero nos fijamos en el primera cifra:

15 < 25

El número que tenga mayor la primera cifra es el mayor.
En este caso, el veinticinco es mayor que el quince.

2) Si las dos primeras cifras son iguales nos fijamos en la segunda cifra:

15 > 11

El número que tenga mayor la segunda cifra (cuando las primeras son iguales) es el mayor.
En este caso, el quince es mayor que el once.

Fíjate:

Números que tienen las dos primeras cifras iguales:

34 < 38 | **27 > 23** | **40 < 49** | **56 > 54**

Números que tienen las dos primeras cifras distintas:

34 < 54 | **27 > 13** | **40 < 60** | **36 > 24**

MUESTRA GRATUITA

Actividades

14. Escribe > mayor que o < menor que.

35	◯	25	14	◯	44	33	◯	13
11	◯	41	28	◯	38	50	◯	20

15. Escribe > mayor que o < menor que.

16	◯	14	26	◯	21	32	◯	39
45	◯	45	29	◯	24	19	◯	17

16. Escribe > mayor que o < menor que.

20	◯	10	30	◯	20	40	◯	30
40	◯	50	60	◯	50	2	◯	25

17. Escribe > mayor que o < menor que.

32	◯	21	16	◯	49	32	◯	14
18	◯	49	25	◯	32	53	◯	20

MUESTRA GRATUITA

Actividades de repaso

18. Completa los números hasta el 30.

1									
									30

19. Escribe el número correspondiente:

- veinte ☐
- treinta ☐
- once ☐
- veintiuno ☐
- doce ☐
- veintidós ☐
- trece ☐
- veintitrés ☐
- catorce ☐
- veinticuatro ☐
- quince ☐
- veinticinco ☐
- dieciséis ☐
- veintiséis ☐
- diecisiete ☐
- veintisiete ☐
- dieciocho ☐
- veintiocho ☐
- diecinueve ☐
- veintinueve ☐
- cero ☐

MUESTRA GRATUITA

Actividades de repaso

20. Fíjate en esta página del calendario y contesta.

- ¿De qué mes es esa página del calendario?

_____

- ¿Qué día de la semana era el día 10?

_____

- ¿Qué días (números) son lunes?

_____

21. Escribe los números del 1 al 30 en la recta numérica:

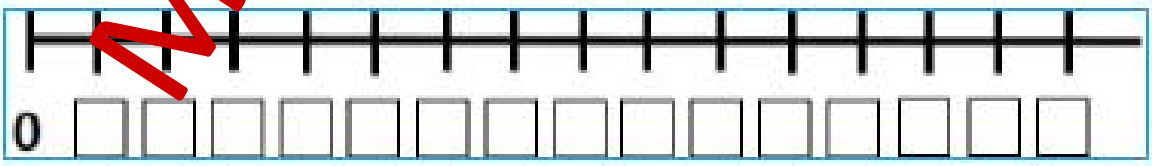

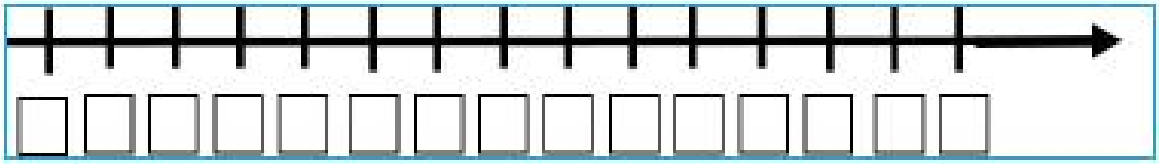

MUESTRA GRATUITA

Actividades de repaso

22. Completa los números hasta el 30.

1									
									30

23. Escribe el nombre de estos números.

30	_____	20	_____
29	_____	19	_____
28	_____	18	_____
27	_____	17	_____
26	_____	16	_____
25	_____	15	_____
24	_____	14	_____
23	_____	13	_____
22	_____	12	_____
21	_____	11	_____

MUESTRA GRATUITA

Actividades de repaso

24. Escribe > mayor que o < menor que.

37	◯	27	18	◯	48	31	◯	11
19	◯	49	22	◯	32	10	◯	30

25. Escribe > mayor que o < menor que.

19	◯	17	25	◯	27	36	◯	37
40	◯	43	21	◯	22	18	◯	17

26. Escribe > mayor que o < menor que.

10	◯	20	20	◯	30	40	◯	30
50	◯	10	40	◯	20	30	◯	20

27. Escribe > mayor que o < menor que.

33	◯	25	19	◯	42	33	◯	44
18	◯	40	20	◯	32	13	◯	20

MUESTRA GRATUITA

2 La suma de unidades

• ¿Qué es sumar?

Sumar es juntar.

Cuando sumamos el resultado es un número mayor.

• El signo de la suma

El signo de la suma es + y se lee "más".

• ¿Cómo representamos la suma?

La suma la representamos así:

• La suma en la recta numérica

Cuando sumamos avanzamos en la recta numérica.

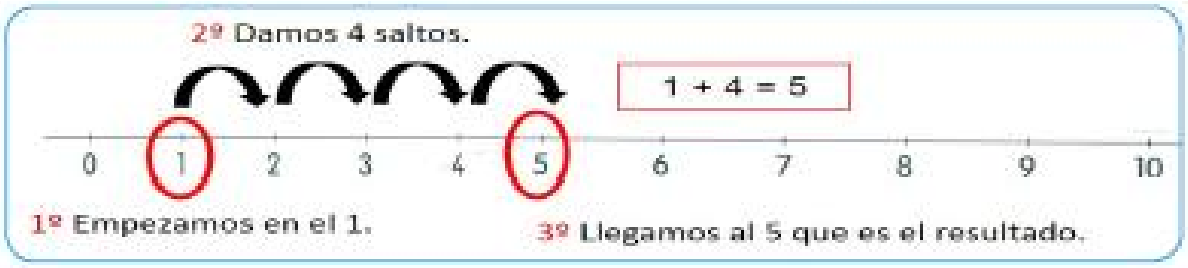

MUESTRA GRATUITA

Actividades

28. Realiza estas sumas:

5 + 2 = ☐	4 + 4 = ☐
1 + 2 = ☐	7 + 3 = ☐

29. Representa estas sumas en la recta numérica:

5 + 1 = ☐

0 1 2 3 4 5 6 7 8 9 10

4 + 6 = ☐

0 1 2 3 4 5 6 7 8 9 10

2 + 5 = ☐

0 1 2 3 4 5 6 7 8 9 10

MUESTRA GRATUITA

Actividades

30. Suma:

+ 2 2 ☐	+ 4 1 ☐	+ 3 3 ☐
+ 5 2 ☐	+ 4 5 ☐	+ 6 3 ☐
+ 7 1 ☐	+ 8 2 ☐	+ 9 0 ☐

31. Representa estas sumas en la recta numérica:

2 = ☐

0 1 2 3 4 5 6 7 8 9 10

5 + 5 = ☐

0 1 2 3 4 5 6 7 8 9 10

8 + 1 = ☐

0 1 2 3 4 5 6 7 8 9 10

MUESTRA GRATUITA

Actividades

32.Escribe estas sumas en vertical y resuélvelas.

2+7=

4+3=

5+4=

7+2=

9+1=

8+0=

2+6=

3+7=

MUESTRA GRATUITA

Vamos de compras (I)

Conocemos los euros:

Un euro (1 €)

Dos euros (2 €)

Cinco euros (5 €)

Diez euros (10 €)

Fíjate:

√ Quiero comprar estas cosas:

2 €

3 €

√ ¿Cuánto pagaré?

$$\begin{array}{r} 2 \\ + \quad 3 \\ \hline \boxed{5} \end{array}$$

√ ¿Con qué billete pagaré?

MUESTRA GRATUITA

Actividades

33. Resuelve:

√ Quieres comprar estas cosas:

√ ¿Cuánto pagarás?

+

√ ¿Con qué billete puedes pagar? Marca.



34. Suma el dinero de cada cartera.

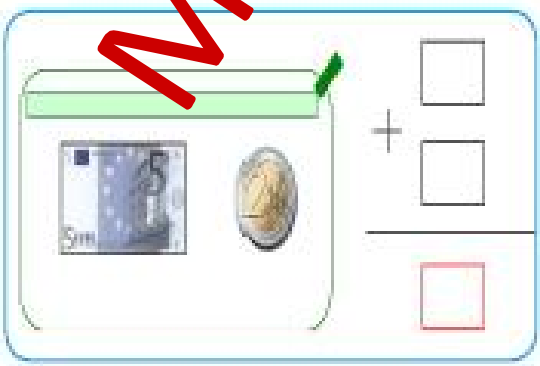

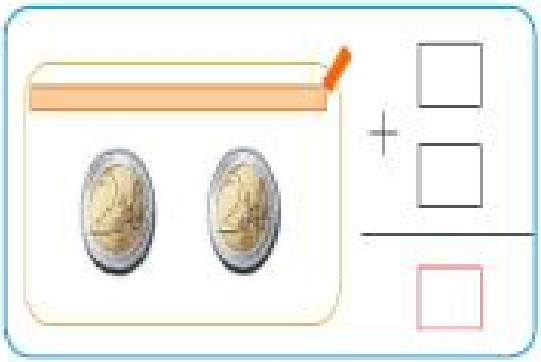

MUESTRA GRATUITA

Actividades de repaso

35. Resuelve:

√ Quieres comprar estas cosas:

1 €

5 €

√ ¿Cuánto pagarás?

+

√ ¿Con qué billete puedes pagar? Marca.

36. Suma el dinero de cada cartera.



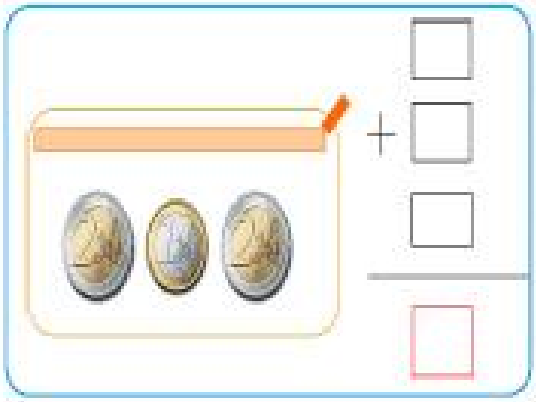

MUESTRA GRATUITA

Actividades de repaso

37. Suma:

+ 5 / 5 = ☐	+ 4 / 4 = ☐	+ 3 / 3 = ☐
+ 2 / 2 = ☐	+ 1 / 1 = ☐	+ 6 / 0 = ☐
+ 1 / 7 = ☐	+ 1 / 8 = ☐	+ 9 / 1 = ☐

38. Representa estas sumas en la recta numérica:

4 + 5 = ☐

3 + 6 = ☐

0 + 9 = ☐

MUESTRA GRATUITA

Actividades de repaso

39.Escribe estas sumas en vertical y resuélvelas.

5 + 5 =

0 + 0 =

5 + 4 =

7 + 2 =

9 + 1 =

3 + 6 =

1 + 8 =

4 + 4 =

MUESTRA GRATUITA

Actividades de repaso

40. Resuelve:

√ Quieres comprar estas cosas:

5 €

5 €

√ ¿Cuánto pagarás?

+

√ ¿Con qué billete puedes pagar? Marca.



41. Suma el dinero de cada cartera.



+

+

MUESTRA GRATUITA

3 La resta de unidades

• ¿Qué es restar?

Sumar es quitar.

Cuando restamos el resultado es un número menor.



• El signo de la resta

El signo de la resta es - y se lee "menos".

• ¿Cómo representamos la resta?

La resta la representamos así:

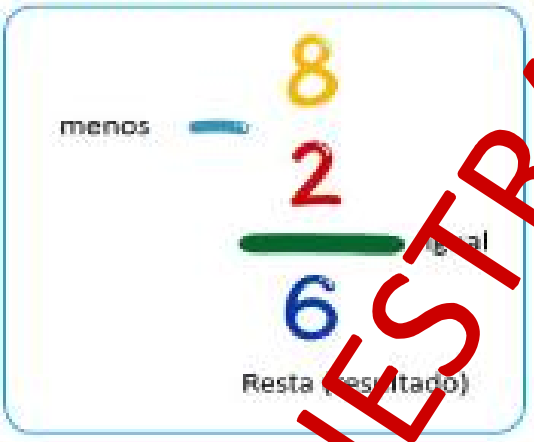

• La resta en la recta numérica

Cuando restamos vamos hacia atrás en la recta numérica.

MUESTRA GRATUITA

42. Realiza estas restas:

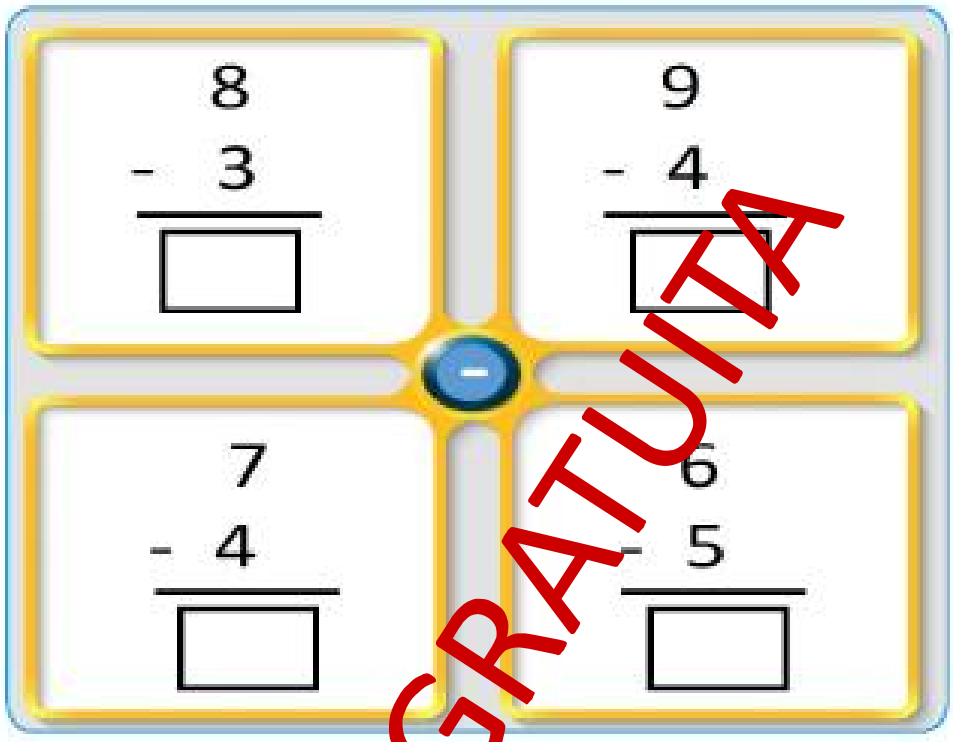

43. Representa estas restas en la recta numérica:

7 - 5 = ☐

0 1 2 3 4 5 6 7 8 9 10

9 - 3 = ☐

0 1 2 3 4 5 6 7 8 9 10

8 - 4 = ☐

0 1 2 3 4 5 6 7 8 9 10

MUESTRA GRATUITA

44. Resta:

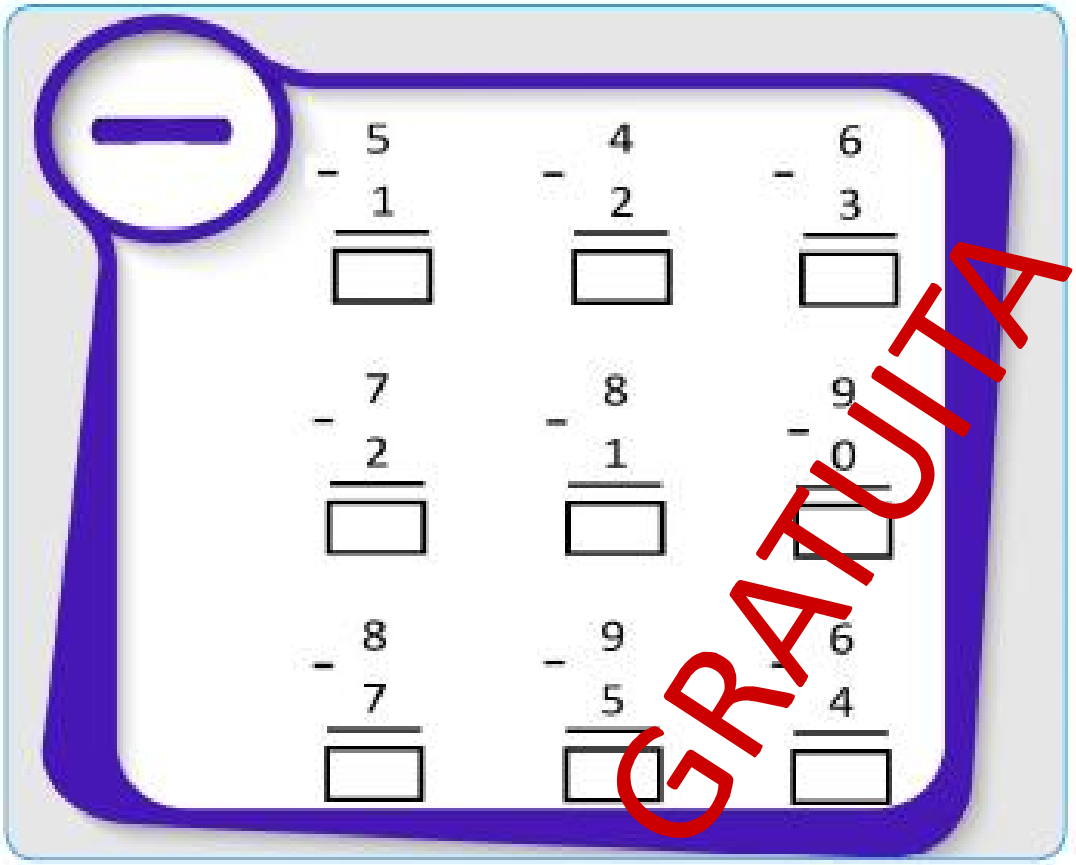

45. Representa estas restas en la recta numérica:

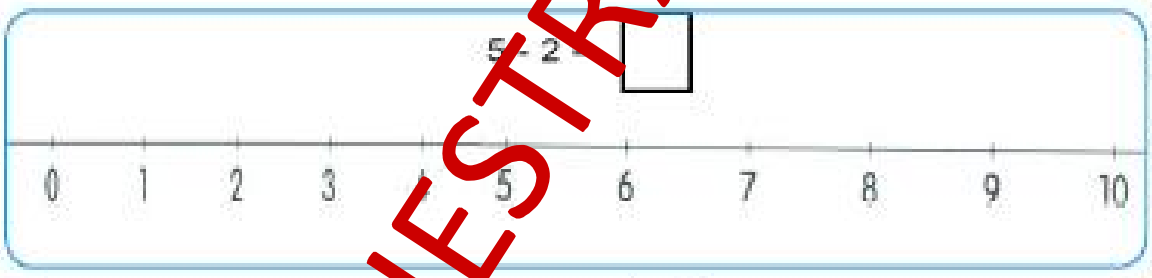

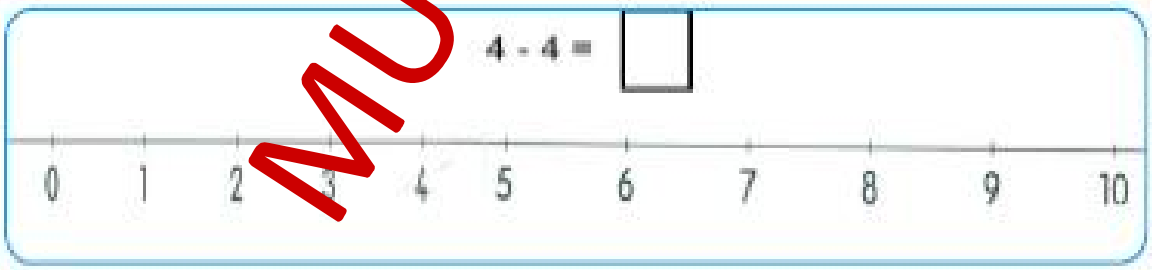

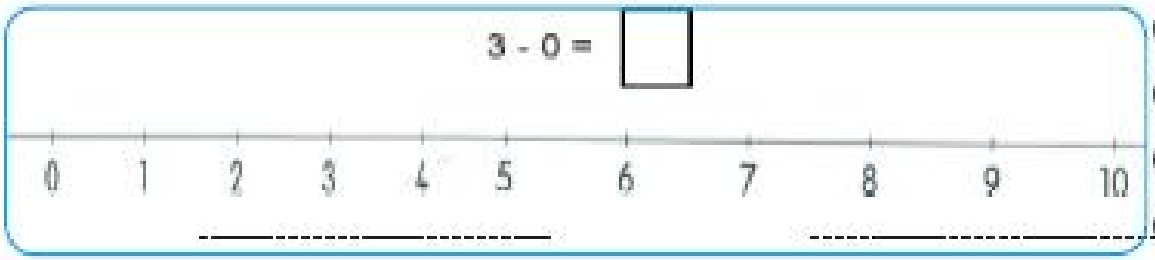

MUESTRA GRATUITA

Actividades

46.Escribe estas restas en vertical y resuélvelas.

9 - 7 =	5 - 4 =	8 - 1 =
4 - 3 =	7 - 2 =	6 - 0 =
3 - 3 =	9 - 2 =	5 - 5 =

MUESTRA GRATUITA

Vamos de compras (II)

Fíjate:

1. Compro una gorra.

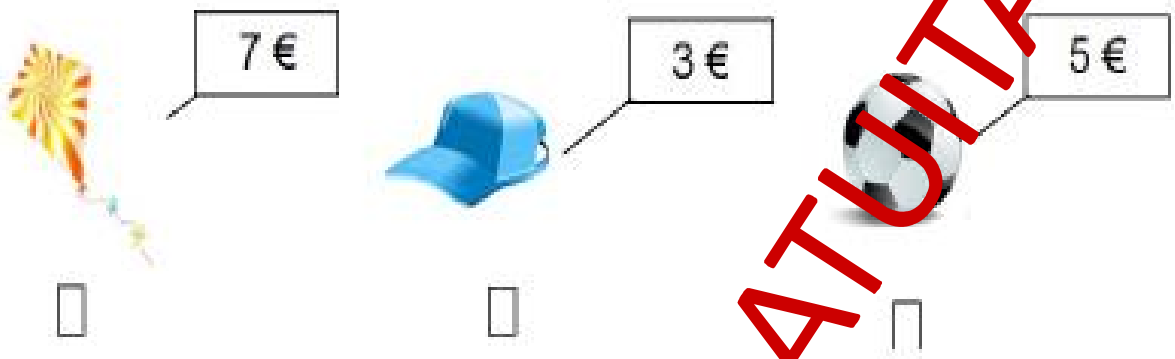

2. Pago con un billete de 5 €.

3. ¿Cuánto me sobra?

$$\begin{array}{r} 5 \\ -\ 3 \\ \hline 2 \end{array}$$

Respuesta: Me sobran 2 euros.

MUESTRA GRATUITA

47. Resuelve:

√ Elige.

1. ¿Qué comprarías? Marca.

8 €

5 €

9 €

☐ ☐ ☐

2. ¿Con qué billete pagarías? Marca.

☐ ☐ ☐

3. ¿Cuánto te sobra?

Resta:

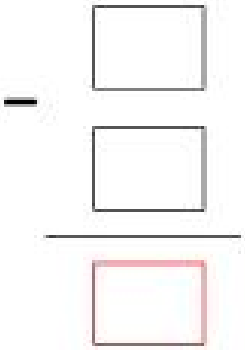

Respuesta: _____

MUESTRA GRATUITA

48. Resuelve:

√ Elige.

1. ¿Qué comprarías? Marca.

7 €

3 €



9 €

☐ ☐ ☐

2. ¿Con qué billete pagarías? Marca.

☐ ☐ ☐

3. ¿Cuánto te sobra?

Resta:

☐

−

☐

☐

Respuesta: _____

MUESTRA GRATUITA

49. Resta:

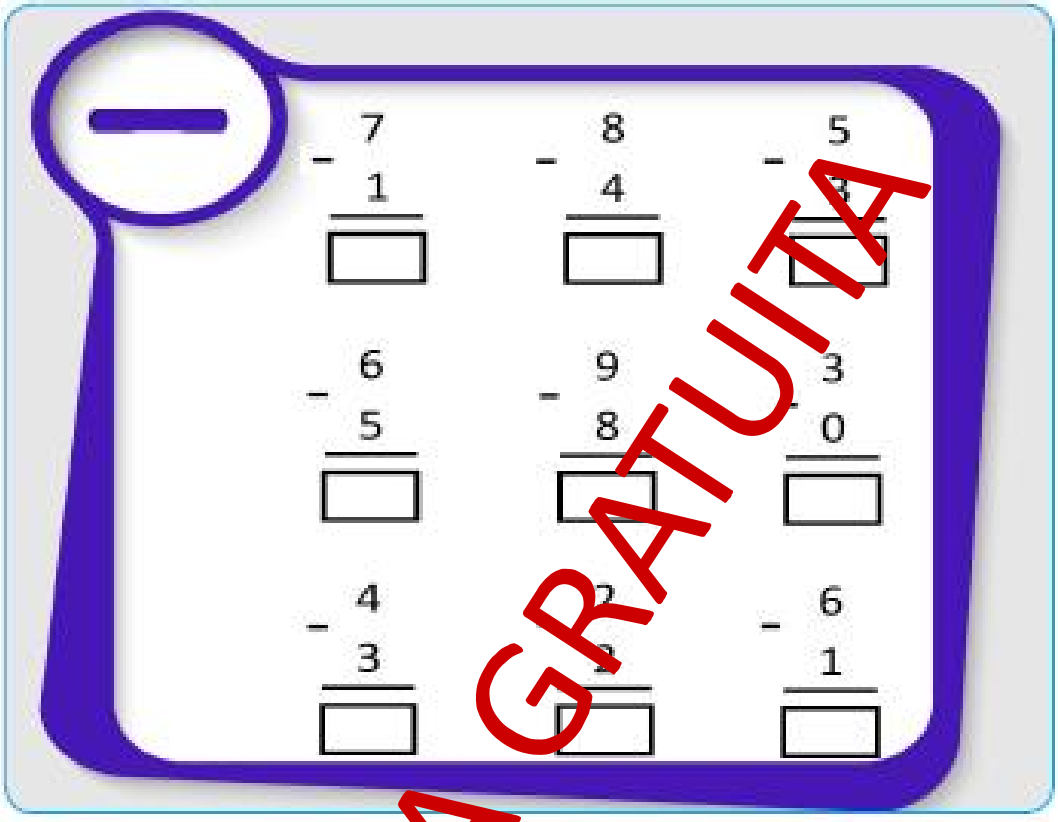

50. Representa estas restas en la recta numérica:

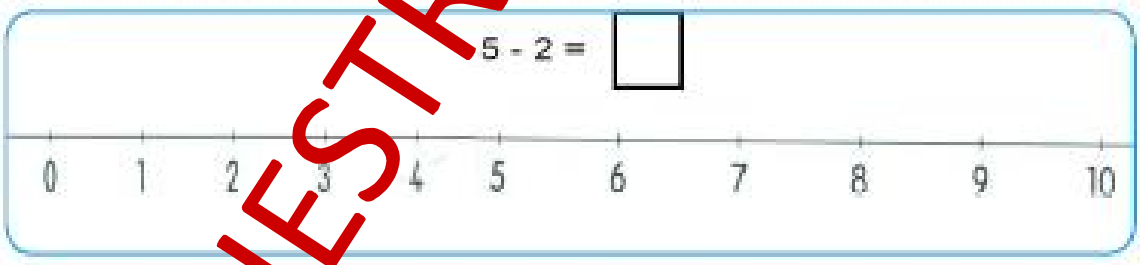

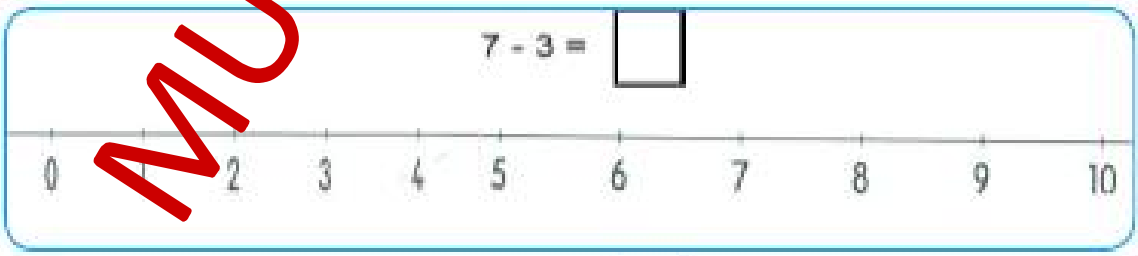

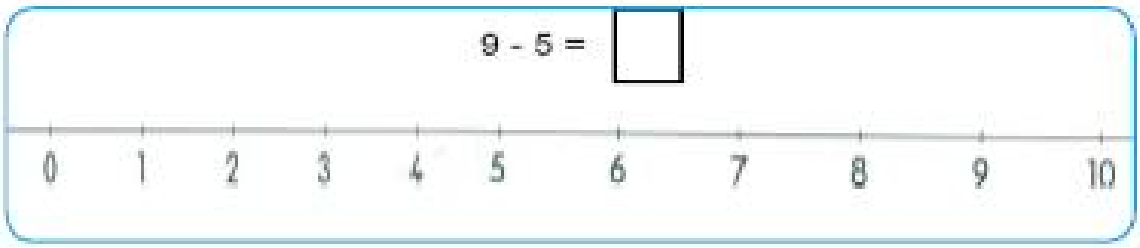

MUESTRA GRATUITA

Actividades de repaso

51.Escribe estas restas en vertical y resuélvelas.

8 - 4 =	6 - 6 =	4 - 1 =
9 - 7 =	5 - 4 =	3 - 2 =
8 - 5 =	6 - 4 =	5 - 0 =

MUESTRA GRATUITA

52. Resuelve:

√ Elige.

1. ¿Qué comprarías? Marca.

3 €

7 €

1 €

☐ ☐ ☐

2. ¿Con qué billete pagarías? Marca.

☐ ☐ ☐

3. ¿Cuánto te sobra?

Resta:

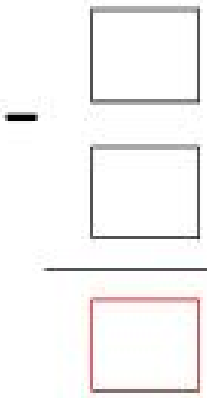

Respuesta: _____

MUESTRA GRATUITA

Para acabar:

Líneas y puntos

• Las líneas

Una línea es un conjunto de puntos uno detrás de otro en la misma dirección.

• Los puntos

El lugar donde se cortan dos rectas se cortan se llama punto.

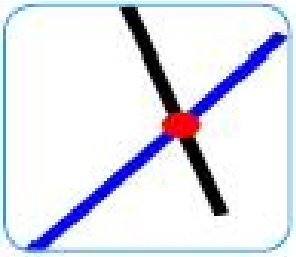

• Tipos de rectas

Rectas paralelas (**nunca** se cortan):



Rectas secantes (se cortan):



Rectas perpendiculares:

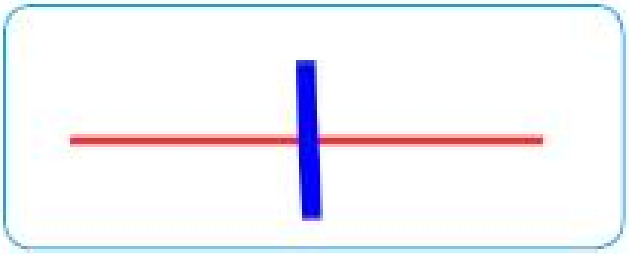

MUESTRA GRATUITA

51.Escribe estas restas en vertical y resuélvelas.

8 - 4 =	6 - 6 =	4 - 1 =
9 - 7 =	5 - 4 =	3 - 2 =
8 - 5 =	6 - 4 =	5 - 0 =

MUESTRA GRATUITA

52. Resuelve:

√ Elige.

1. ¿Qué comprarías? Marca.

3 €

7 €

1 €

☐ ☐ ☐

2. ¿Con qué billete pagarías? Marca.



☐ ☐ ☐

3. ¿Cuánto te sobra?

Resta:



Respuesta: _____

MUESTRA GRATUITA

Para acabar:

Líneas y puntos

• Las líneas

Una línea es un conjunto de puntos uno detrás de otro en la misma dirección.

• Los puntos

El lugar donde se cortan dos rectas se cortan se llama punto.

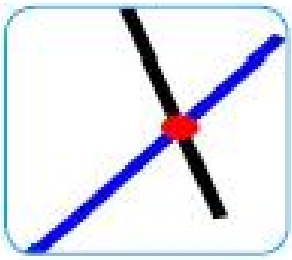

• Tipos de rectas

Rectas paralelas (nunca se cortan):



Rectas secantes (se cortan):



Rectas perpendiculares:

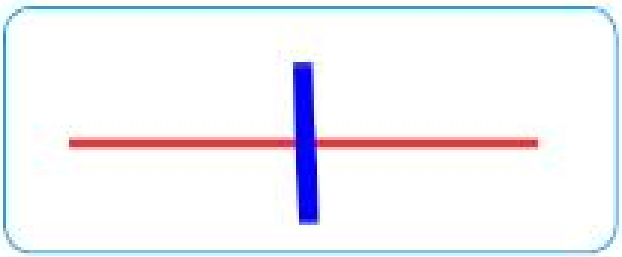

MUESTRA GRATUITA

Actividades

53. Escribe **línea** o **punto** según corresponda



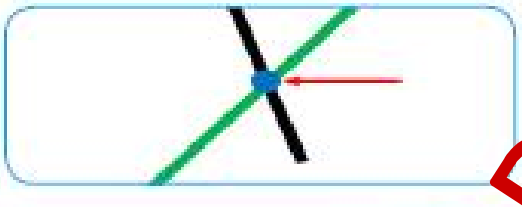

54. Une cada tipo de líneas con su nombre:

Líneas **paralelas.**

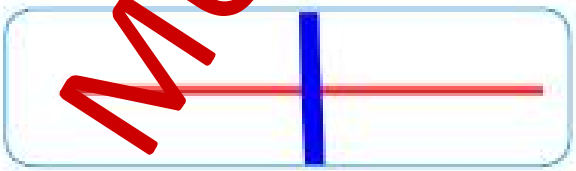

Líneas **secantes.**

Líneas **perpendiculares.**

MUESTRA GRATUITA

EXAMEN

1. Completa los números hasta el 30.

1									
									30

2. Escribe el número correspondiente:

• diez		• doce		• veinticinco	
• siete		• quince		• veintinueve	
• cinco		• dieciséis		• veintiuno	
• dos		• dieciocho		• veintisiete	
• uno		• once		• veintitrés	
• ocho		• diecinueve		• veintiocho	
• tres		• trece		• veintiséis	
• cuatro		• catorce		• treinta	
• nueve		• diecisiete		• veinticuatro	
• seis		• veinte		• veintidós	

MUESTRA GRATUITA

EXAMEN

3. Escribe el nombre de estos números:

10	_____	9	_____
2	_____	7	_____
4	_____	5	_____
6	_____	3	_____
8	_____	1	_____
11	_____	12	_____
13	_____	14	_____
15	_____	16	_____
17	_____	18	_____
19	_____	20	_____
21	_____	26	_____
22	_____	27	_____
23	_____	28	_____
24	_____	29	_____
25	_____	30	_____

MUESTRA GRATUITA

EXAMEN

4. Resuelve:

Quieres comprar estas cosas:

2 €

7 €

¿Cuánto pagarás?

+

¿Con qué billete puedes pagar? Marca.

5. Suma el dinero de cada cartera.

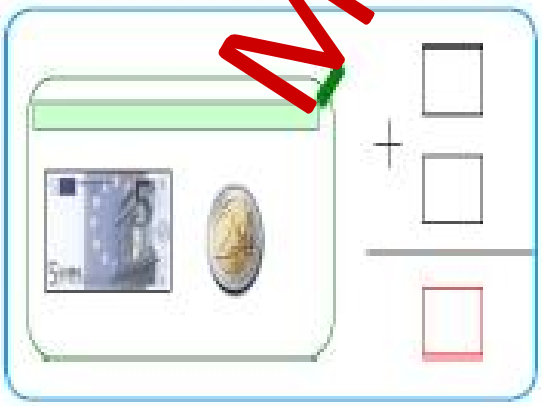

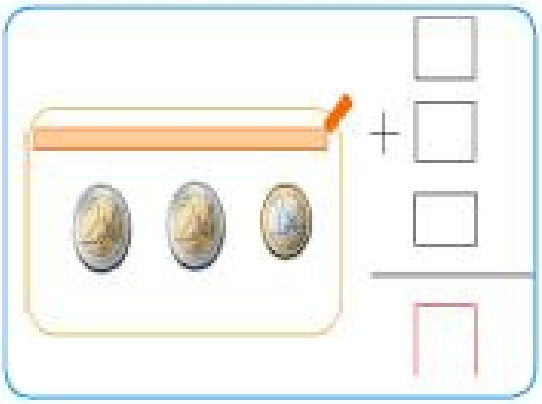

MUESTRA GRATUITA

EXAMEN

6. Suma:

1 + 4 = ☐	2 + 3 = ☐	4 + 5 = ☐
5 + 2 = ☐	3 + 6 = ☐	7 + 0 = ☐
8 + 2 = ☐	[illegible] + 9 = ☐	7 + 3 = ☐

7. Representa estas sumas en la recta numérica:

1 + 7 = ☐

0 1 2 3 4 5 6 7 8 9 10

3 + 3 = ☐

0 1 2 3 4 5 6 7 8 9 10

6 + 4 = ☐

0 1 2 3 4 5 6 7 8 9 10

MUESTRA GRATUITA

EXAMEN

8. Resuelve:

Elige.

1. ¿Qué comprarías? Marca.

7 €

5 €

3 €

2. ¿Con qué billete pagarías? Marca.



3. ¿Cuánto te sobra?

Resta:

Respuesta: _____

MUESTRA GRATUITA

9. Resta:

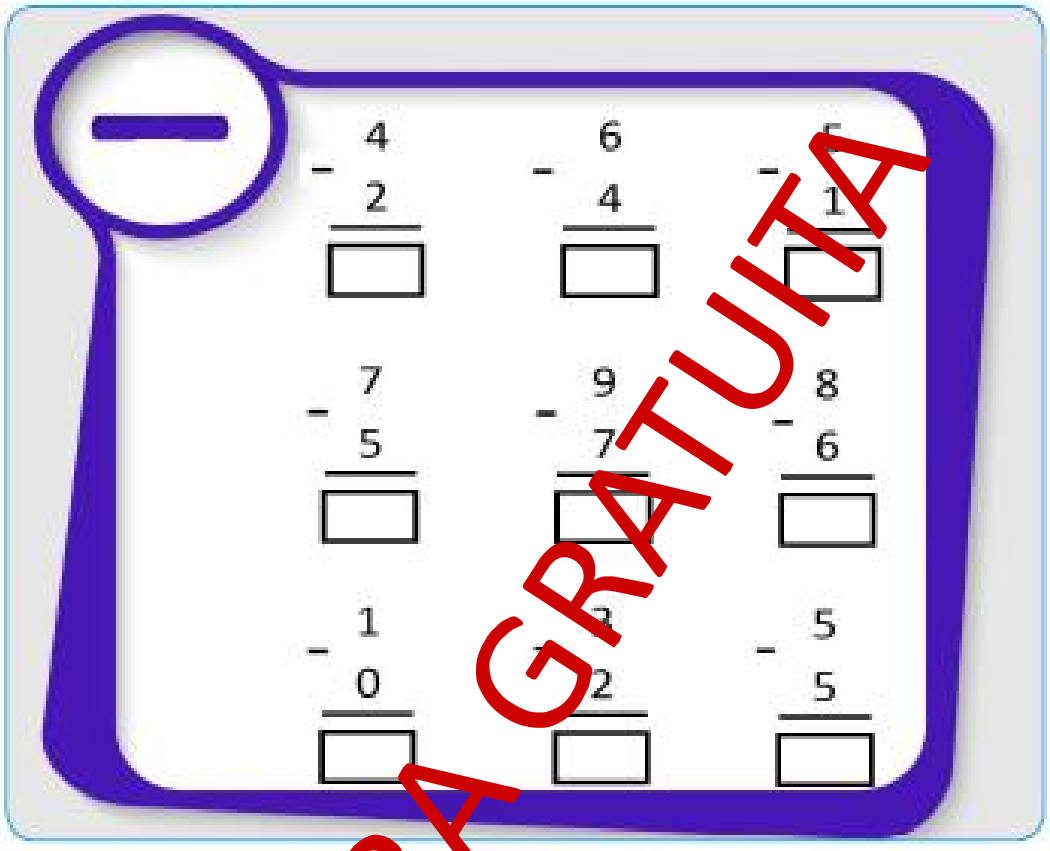

10. Representa estas restas en la recta numérica:

8 - 1 = ☐

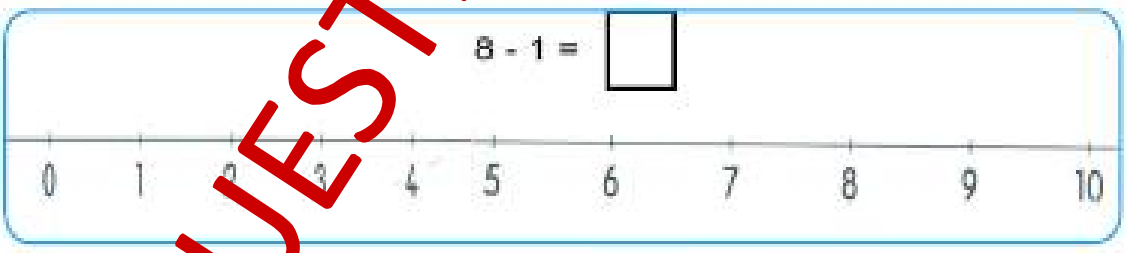

5 - 4 = ☐



2 - 2 = ☐



MUESTRA GRATUITA

Para acabar:

Actividades

55. Escribe línea o punto según corresponda

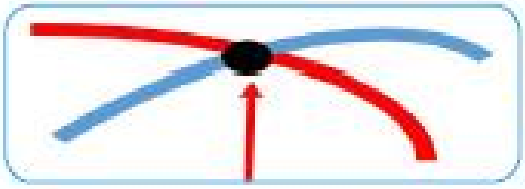



56. Dibuja una línea y un punto:

57. Une cada tipo de líneas con su nombre:

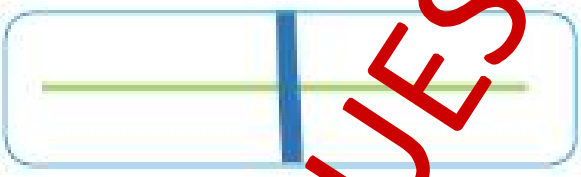

Líneas paralelas.

Líneas secantes.

Líneas perpendiculares.

MUESTRA GRATUITA

2

1

Números hasta el 60.....Página 48

El reloj.

2

Suma de decenas.....Página 62

Vamos de compras (3)

3

Resta de decenas.....Página 72

Vamos de compras (4)

Para acabar:

Los ángulos.....Página 82

3

1

Números hasta el 100.....Página 92

Contar de 10 en 10.

2

Suma con llevadas.....Página 104

Vamos de compras (5)

3

Resta con llevadas.....Página 114

Vamos de compras (6)

Para acabar:

Polígonos.....Página 124

1 Los números hasta el 100

- Conozco los números

1	2	3	4	5	6	7	8	9	10
11	12	13	14	15	16	17	18	19	20
21	22	23	24	25	26	27	28	29	30
31	32	33	34	35	36	37	38	39	40
41	42	43	44	45	46	47	48	49	50
51	52	53	54	55	56	57	58	59	60
61	62	63	64	65	66	67	68	69	70
71	72	73	74	75	76	77	78	79	80
81	82	83	84	85	86	87	88	89	90
91	92	93	94	95	96	97	98	99	100

MUESTRA GRATUITA

- El nombre de los números

61	sesenta y uno	71	setenta y uno	81	ochenta y uno
62	sesenta y dos	72	setenta y dos	82	ochenta y dos
63	sesenta y tres	73	setenta y tres	83	ochenta y tres
64	sesenta y cuatro	74	setenta y cuatro	84	ochenta y cuatro
65	sesenta y cinco	75	setenta y cinco	85	ochenta y cinco
66	sesenta y seis	76	setenta y seis	86	ochenta y seis
67	sesenta y siete	77	setenta y siete	87	ochenta y siete
68	sesenta y ocho	78	setenta y ocho	88	ochenta y ocho
69	sesenta y nueve	79	setenta y nueve	89	ochenta y nueve
70	setenta	80	ochenta	90	noventa

91	noventa y uno	96	noventa y seis
92	noventa y dos	97	noventa y siete
93	noventa y tres	98	noventa y ocho
94	noventa y cuatro	99	noventa y nueve
95	noventa y cinco	100	cien

MUESTRA GRATUITA

Actividades

1. Completa los números hasta el 100.

1				5				10
11				15				20
21				25				30
31				35				40
41				45				50
51				55				60
61				65				70
71				75				80
81				85				90
91				95				100

2. Escribe el número correspondiente:

- diez
- veinte
- treinta
- cuarenta
- cincuenta
- sesenta
- setenta
- ochenta
- noventa
- cien

MUESTRA GRATUITA

Actividades

3. Escribe el número correspondiente:

- cincuenta y uno
- cincuenta y dos
- cincuenta y tres
- cincuenta y cuatro
- cincuenta y cinco
- cincuenta y seis
- cincuenta y siete
- cincuenta y ocho
- cincuenta y nueve
- sesenta
- setenta y uno
- setenta y dos
- setenta y tres
- setenta y cuatro
- setenta y cinco
- setenta y seis
- setenta y siete
- setenta y ocho
- setenta y nueve
- ochenta
- noventa y uno
- noventa y dos
- noventa y tres
- noventa y cuatro
- noventa y cinco
- sesenta y uno
- sesenta y dos
- sesenta y tres
- sesenta y cuatro
- sesenta y cinco
- sesenta y seis
- sesenta y siete
- sesenta y ocho
- sesenta y nueve
- setenta
- ochenta y uno
- ochenta y dos
- ochenta y tres
- ochenta y cuatro
- ochenta y cinco
- ochenta y seis
- ochenta y siete
- ochenta y ocho
- ochenta y nueve
- noventa
- noventa y seis
- noventa y siete
- noventa y ocho
- noventa y nueve
- cien

MUESTRA GRATUITA

Actividades

- Recuerda el nombre de los números.

61	sesenta y uno	71	setenta y uno	81	ochenta y uno	91	noventa y uno
62	sesenta y dos	72	setenta y dos	82	ochenta y dos	92	noventa y dos
63	sesenta y tres	73	setenta y tres	83	ochenta y tres	93	noventa y tres
64	sesenta y cuatro	74	setenta y cuatro	84	ochenta y cuatro	94	noventa y cuatro
65	sesenta y cinco	75	setenta y cinco	85	ochenta y cinco	95	noventa y cinco
66	sesenta y seis	76	setenta y seis	86	ochenta y seis	96	noventa y seis
67	sesenta y siete	77	setenta y siete	87	ochenta y siete	97	noventa y siete
68	sesenta y ocho	78	setenta y ocho	88	ochenta y ocho	98	noventa y ocho
69	sesenta y nueve	79	setenta y nueve	89	ochenta y nueve	99	noventa y nueve
70	setenta	80	ochenta	90	noventa	100	cien

4. Escribe el nombre de estos números.

61 → _____

63 → _____

65 → _____

67 → _____

69 → _____

68 → _____

66 → _____

64 → _____

62 → _____

70 → _____

MUESTRA GRATUITA

Actividades

5. Escribe el nombre de estos números.

72		81	
74		85	
76		89	
78		88	
80		82	
79		86	
77		83	
75		84	
73		87	
71		90	

91		96	
92		97	
93		98	
94		99	
95		100	

MUESTRA GRATUITA

La decena

Diez unidades es una decena.

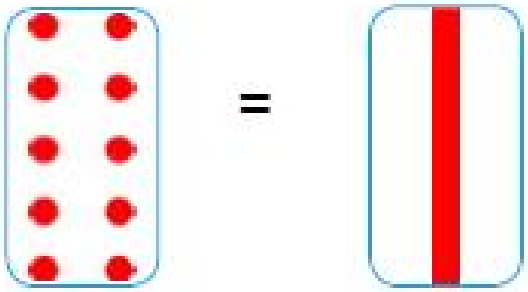

diez unidades = una decena

Contar de 10 en 10

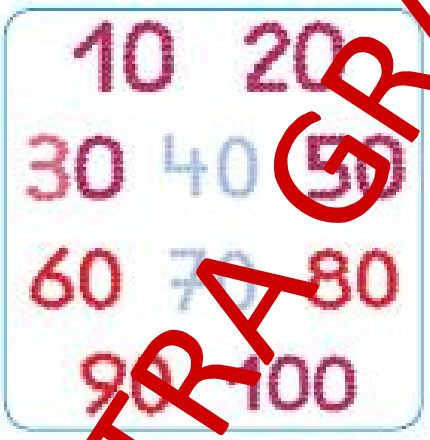

Ordenamos los números en la recta numérica de 10 en 10.



MUESTRA GRATUITA

Actividades

6. Escribe el número que corresponde a cada cantidad. Después rodea la decena.

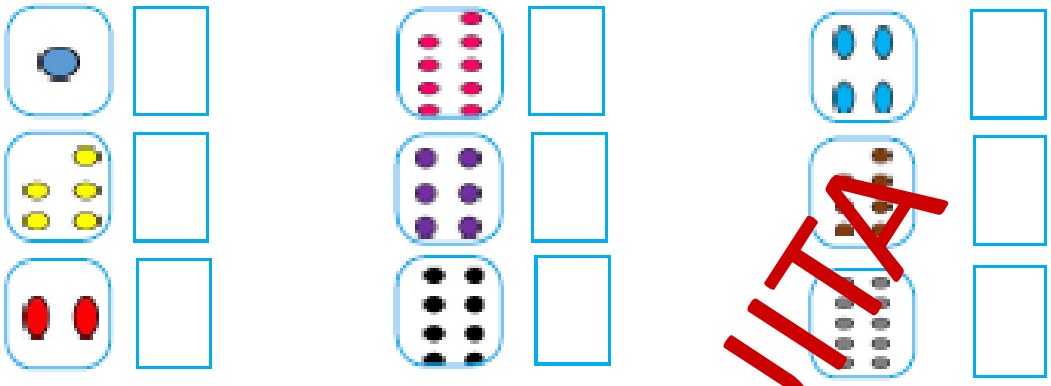

7. Escribe los números del 1 al 100 en la recta numérica y marca de un color distinto cada decena.



MUESTRA GRATUITA

Actividades de repaso

8. Completa los números hasta el 100.

1									10
11									20
21									30
31									40
41									50
51									60
61									70
71									80
81									90
91									100

9. Escribe el número correspondiente:

- diez
- veinte
- treinta
- cuarenta
- cincuenta
- cero
- sesenta
- setenta
- ochenta
- noventa
- cien

MUESTRA GRATUITA

Actividades de repaso

10. Escribe el nombre de estos números.

61	_____	66	_____
62	_____	67	_____
63	_____	68	_____
64	_____	69	_____
65	_____	70	_____
71	_____	76	_____
72	_____	77	_____
73	_____	78	_____
74	_____	79	_____
75	_____	80	_____
81	_____	86	_____
82	_____	87	_____
83	_____	88	_____
84	_____	89	_____
85	_____	90	_____

MUESTRA GRATUITA

Actividades de repaso

11. Completa los números hasta el 100.

1									
									100

12. Escribe el nombre de estos números.

91 → _____

92 → _____

93 → _____

94 → _____

95 → _____

96 → _____

97 → _____

98 → _____

99 → _____

100 → _____

MUESTRA GRATUITA

Actividades de repaso

13. Escribe el número correspondiente:

- sesenta y tres
- sesenta y seis
- sesenta y nueve
- sesenta y dos
- sesenta y cuatro
- sesenta y seis
- sesenta y ocho
- sesenta y uno
- sesenta y cinco
- setenta

- ochenta y uno
- ochenta y tres
- ochenta y cinco
- ochenta y siete
- ochenta y nueve
- ochenta y dos
- ochenta y cuatro
- ochenta y seis
- ochenta y ocho
- noventa

- ochenta
- setenta y nueve
- setenta y ocho
- setenta y siete
- setenta y seis
- setenta y cinco
- setenta y cuatro
- setenta y tres
- setenta y dos
- setenta y uno

- noventa y uno
- noventa y dos
- noventa y tres
- noventa y cuatro
- noventa y cinco
- noventa y seis
- noventa y siete
- noventa y ocho
- noventa y nueve
- cien

14. Escribe el nombre de estos números.

25 → _____

50 → _____

75 → _____

100 → _____

0 → _____

MUESTRA GRATUITA

2 La suma con llevadas

• **Lee:**

Para sumar con llevadas:

1. Sumamos las unidades.

2. Si el resultado es mayor que 10, colocamos un uno en la columna de las decenas.

3. Después sumamos las decenas.

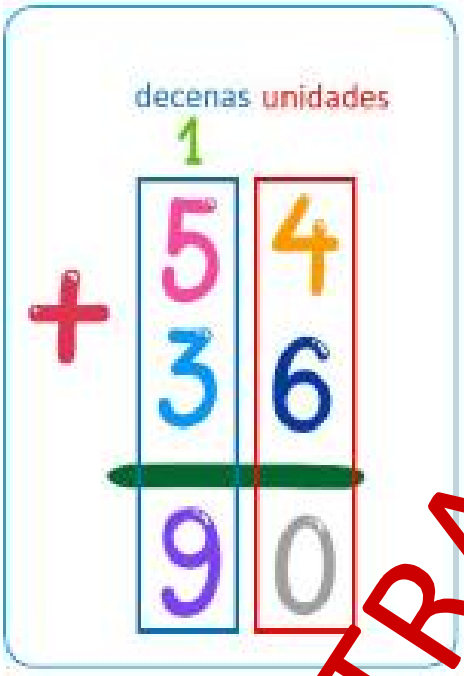

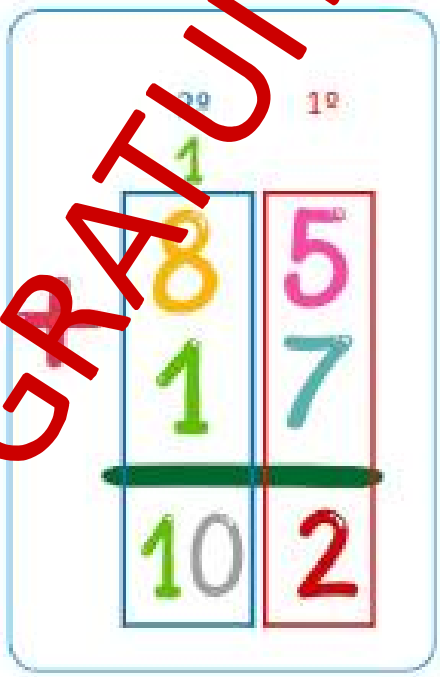

• **Fíjate en los ejemplos:**

1 9 8 + 4 5 14 3	1 3 7 + 3 3 7 0	1 5 6 + 2 5 8 1
1 5 7 + 4 7 10 4	1 9 8 + 7 4 17 2	1 9 6 + 2 9 12 5

MUESTRA GRATUITA

15. Realiza estas sumas con llevadas:

85 + 27 =	86 + 34 =	57 + 57 =	49 + 49 =	36 + 27 =	57 + 34 =
65 + 65 =	46 + 29 =	58 + 48 =	75 + 29 =	95 + 27 =	57 + 68 =

45 + 69 =	67 + 23 =	59 + 81 =	26 + 86 =	65 + 45 =	97 + 17 =
38 + 42 =	56 + 38 =	57 + 55 =	58 + 78 =	29 + 39 =	49 + 68 =

MUESTRA GRATUITA

16. Suma:

27 + 68 =	65 + 76 =	54 + 59 =
58 + 45 =	96 + 97 =	87 + 34 =
18 + 86 =	59 + 55 =	69 + 64 =
29 + 63 =	42 + 49 =	79 + 41 =

MUESTRA GRATUITA

Actividades

17.Escribe estas sumas en vertical y resuélvelas.

23 + 97 =

47 + 56 =

99 + 44 =

85 + 25 =

98 + 57 =

76 + 35 =

68 + 42 =

32 + 73 =

MUESTRA GRATUITA

Vamos de compras (5)

Fíjate en el ejemplo:

√ Quiero comprar estas dos cosas:

37 €

45 €

√ Pagaré 82 euros.

1

	3 7
+	4 5
	8 2

√ Puedo pagar con un billete de 100€.



Actividades

18. Suma el dinero de cada cartera.

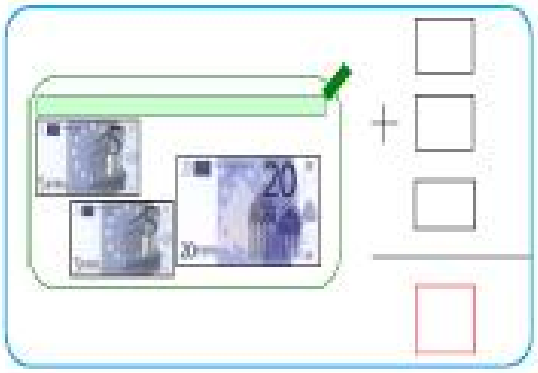

MUESTRA GRATUITA

Actividades

19. Resuelve:

√ Quieres comprar estas dos cosas:

55 €

45 €

√ ¿Cuánto pagarás?

+

√ ¿Con qué billete puedes pagar? Marca.

20. Suma el dinero de cada cartera.

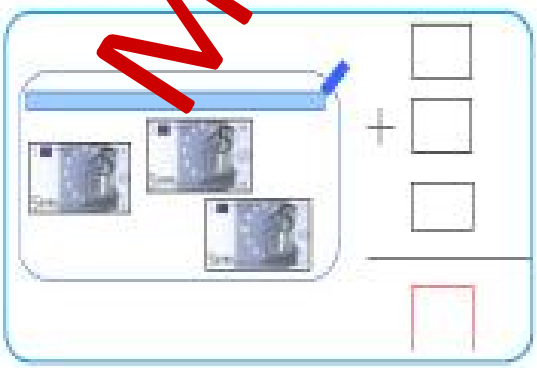

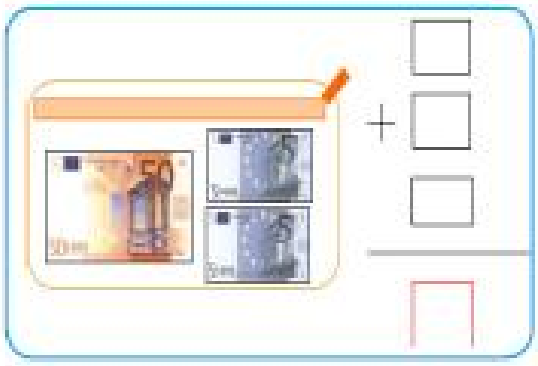

MUESTRA GRATUITA

Actividades de repaso

21. Resuelve:

√ Quieres comprar estas dos cosas:

√ ¿Cuánto pagarás? +

√ ¿Con qué billete puedes pagar? Marca.

22. Suma el dinero de cada cartera.

+

+

MUESTRA GRATUITA

23. Suma:

24 + 99 =	68 + 78 =	94 + 56 =	36 + 84 =	79 + 69 =
17 + 37 =	36 + 96 =	55 + 85 =	76 + [illegible] =	95 + 49 =
98 + 32 =	79 + 71 =	57 + [illegible] =	35 + 85 =	16 + 94 =
48 + 44 =	53 + 58 =	65 + 68 =	78 + 76 =	87 + 88 =
12 + 39 =	39 + 31 =	29 + 13 =	24 + 19 =	56 + 39 =
				58 + 35 =

MUESTRA GRATUITA

Actividades de repaso

24. Escribe estas sumas en vertical y resuélvelas.

48 + 97 =

25 + 56 =

19 + 44 =

85 + 27 =

98 + 36 =

76 + 65 =

48 + 43 =

39 + 74 =

MUESTRA GRATUITA

Actividades de repaso

25. Resuelve:

√ Quieres comprar estas dos cosas:

78 €

15 €

√ ¿Cuánto pagarás? +

√ ¿Con qué billete puedes pagar? Marca.

26. Suma el dinero de cada cartera.

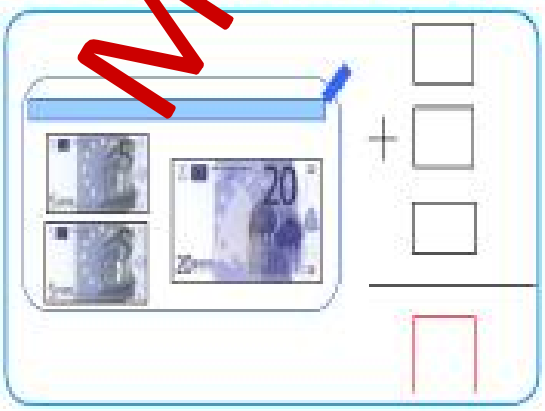

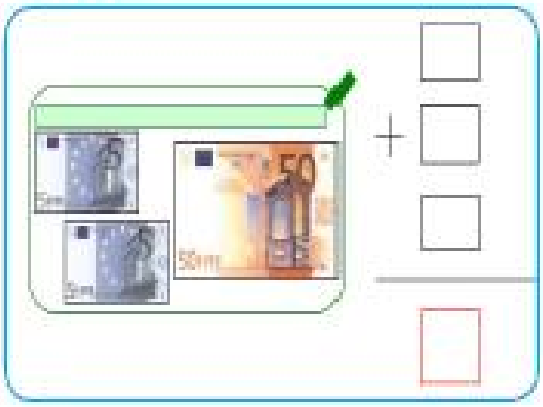

MUESTRA GRATUITA

3 La resta con llevadas

- **Lee:**

Para restar llevando:

1. Restamos las unidades.
2. Si la unidad superior es menor que la inferior, cambiamos una decena por 10 unidades.
3. Resolvemos.

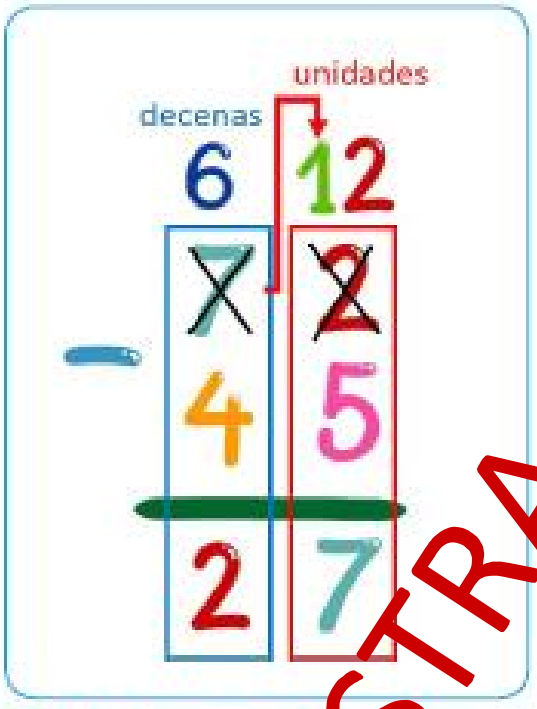

NOTA: Para simplificar, podemos usar esta forma:

- **Fíjate en los ejemplos:**

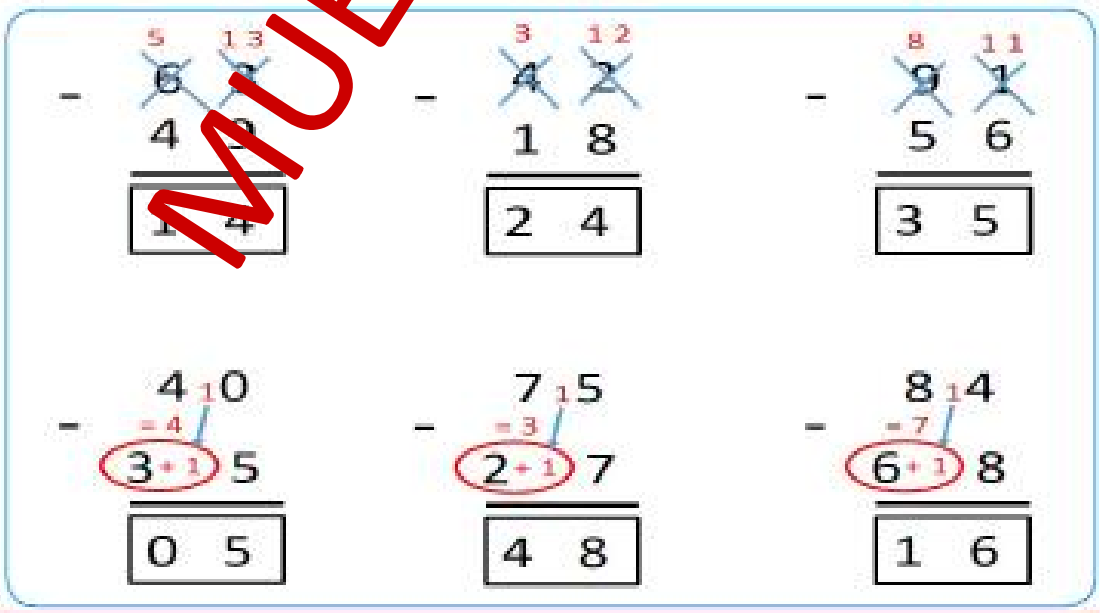

MUESTRA GRATUITA

27. Realiza estas restas llevando:

84 − 48 =	61 − 35 =	42 − 19 =	20 − 17 =
63 − 49 =	85 − 48 =	50 − 47 =	73 − 56 =	94 − 55 =
81 − 13 =	92 − 73 =	73 − 52 =	64 − 47 =	55 − 36 =

MUESTRA GRATUITA

Actividades

28. Resta llevando:

62 - 15 =	83 - 27 =	51 - 34 =	70 - 43 =
60 - 27 =	85 - 39 =	64 - 58 =	76 - 67 =
75 - 48 =	86 - 28 =	34 - 15 =	76 - 29 =

MUESTRA GRATUITA

Actividades

29.Escribe estas restas en vertical y resuélvelas.

93 - 78 =	65 - 57 =	56 - 17 =
82 - 69 =	50 - 34 =	42 - 29 =
74 - 46 =	41 - 36 =	60 - 39 =

MUESTRA GRATUITA

Vamos de compras (6)

Recuerda:

Para pagar una compra debemos pagar con una **moneda o billete mayor o igual** que lo que cuesta la compra.

1. Compro esta cámara.

45 €

2. Pago con un billete de 50 €.



3. ¿Cuánto me sobra?

	5	1 0
−		= 5
	4+1	5
	0	5

Respuesta: Me sobran 5 euros.

MUESTRA GRATUITA

30. Resuelve:

1. ¿Qué comprarías? Marca.

37 €



32 €

2. ¿Con qué billete pagarías? Marca.

3. ¿Cuánto te sobra?

Resta:

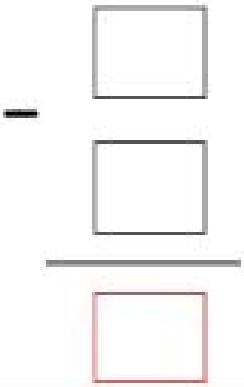

Respuesta: _____

MUESTRA GRATUITA

31. Resuelve:

√ Elige.

1. ¿Qué comprarías? Marca.

16 €

22 €

2. ¿Con qué billete pagarías? Marca.

3. ¿Cuánto te sobra?

Resta:



Respuesta: _____

MUESTRA GRATUITA

32. Resta:

81 − 55 =	75 − 49 =	78 − 39 =
92 − 16 =	85 − 66 =	50 − 29 =
63 − 27 =	76 − 17 =	70 − 45 =
94 − 58 =	77 − 68 =	50 − 26 =

MUESTRA GRATUITA

Actividades de repaso

33.Escribe estas restas en vertical y resuélvelas.

82 - 74 =	76 - 58 =	60 - 16 =
73 - 65 =	41 - 39 =	37 - 29 =
60 - 49 =	40 - 22 =	20 - 18 =

MUESTRA GRATUITA

34. Resuelve:

√ Elige.

1. ¿Qué comprarías? Marca.

47 €

42 €

2. ¿Con qué billete pagarías? Marca.

3. ¿Cuánto te sobra?

Resta:

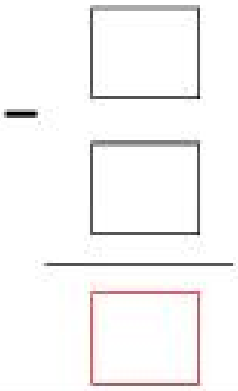

Respuesta: _____

MUESTRA GRATUITA

Para acabar: **Polígonos**

- **Los polígonos**

Un polígono es una figura plana cerrada. Los polígonos están formados por líneas rectas.



Polígonos.

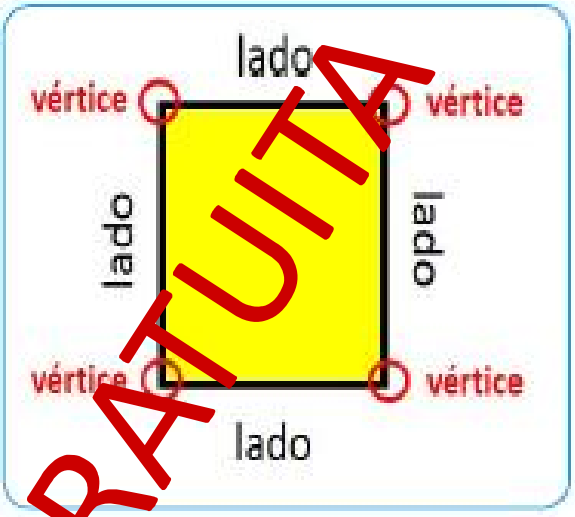

Elementos de los polígonos.

- **Tipos de polígonos**

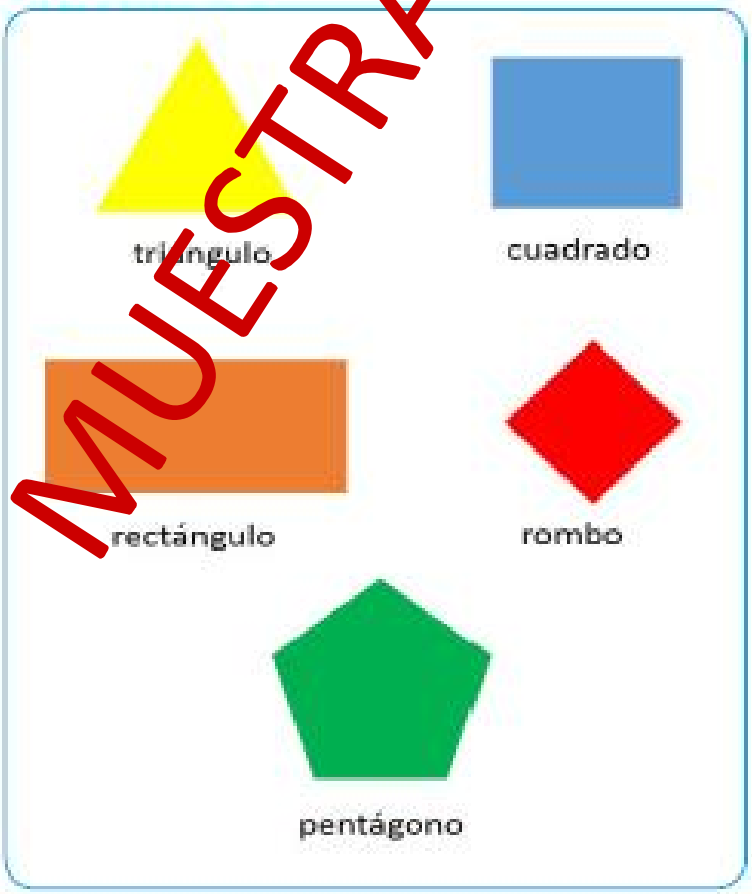

MUESTRA GRATUITA

Actividades

35. Marca de negro los lados de estos polígonos y de rojo los vértices:

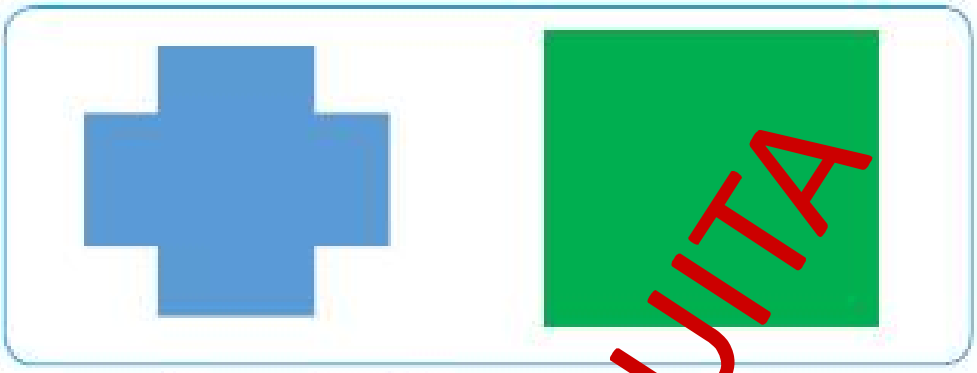

36. Une cada tipo de polígono con su nombre:



Rectángulo

Pentágono

Triángulo

Cuadrado

Rombo

MUESTRA GRATUITA

EXAMEN

1. Completa los números hasta el 100.

1									
									100

2. Escribe el número correspondiente:

- diez ☐
- veinte ☐
- treinta ☐
- cuarenta ☐
- cincuenta ☐
- sesenta ☐
- setenta ☐
- ochenta ☐
- noventa ☐
- cien ☐

MUESTRA GRATUITA

EXAMEN

3. Escribe el nombre de estos números.

61		66	
62		67	
63		68	
64		69	
65		70	
71		76	
72		77	
73		78	
74		79	
75		80	
81		86	
82		87	
83		88	
84		89	
85		90	

MUESTRA GRATUITA

EXAMEN

4. Resuelve:

Quieres comprar estas dos cosas:



¿Cuánto pagarás? +

¿Con qué billete puedes pagar? Marca.



5. Suma el dinero de cada cartera.

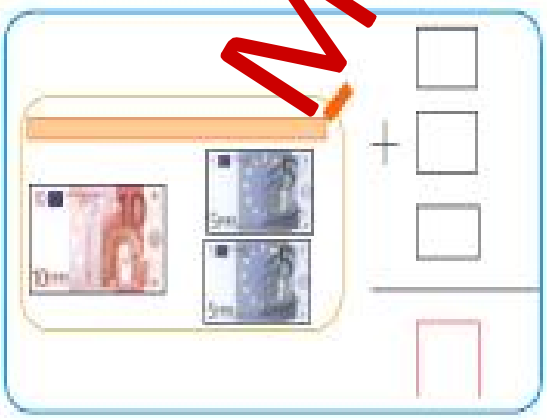

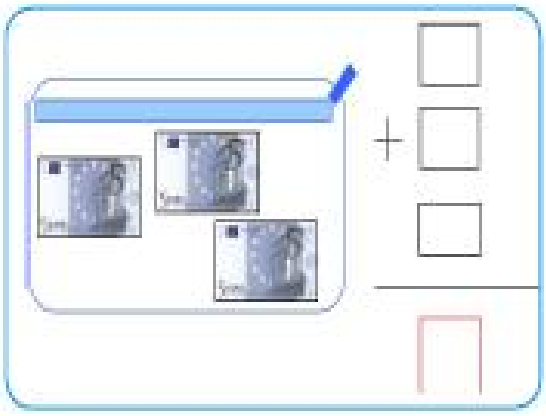

MUESTRA GRATUITA

EXAMEN

6. Suma:

25 + 45 = ☐	66 + 86 = ☐	77 + 57 = ☐
58 + 98 = ☐	99 + 39 = ☐	85 + 36 = ☐
37 + 45 = ☐	54 + 76 = ☐	72 + 68 = ☐
37 + 64 = ☐	59 + 52 = ☐	78 + 45 = ☐

7. Escribe el nombre correspondiente:

91 →	_____	96 →	_____
92 →	_____	97 →	_____
93 →	_____	98 →	_____
94 →	_____	99 →	_____
95 →	_____	100 →	_____

MUESTRA GRATUITA

EXAMEN

8. Resuelve:

Elige.

1. ¿Qué comprarías? Marca.

29 €

15 €

2. ¿Con qué billete pagarías? Marca.

3. ¿Cuánto te sobra?

Resta:

Respuesta: _____

9. Escribe el número correspondiente:

- cinco
- quince
- veinticinco
- treinta y cinco
- cuarenta y cinco
- cincuenta y cinco
- sesenta y cinco
- setenta y cinco
- ochenta y cinco
- noventa y cinco

MUESTRA GRATUITA

10. Resta:

71 − 39 =	92 − 58 =	83 − 67 =
44 − 16 =	35 − 19 =	26 − 18 =
57 − 49 =	68 − 29 =	70 − 51 =
94 − 45 =	71 − 18 =	30 − 23 =

MUESTRA GRATUITA

37. Marca de negro los lados de estos polígonos y de rojo los vértices:

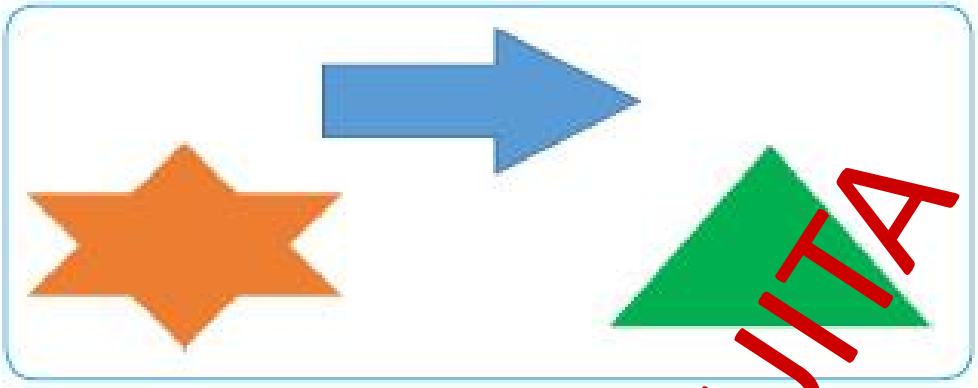

38. Une cada tipo de polígono con su nombre:

Rectángulo

Pentágono

Triángulo

Cuadrado

Rombo

MUESTRA GRATUITA